物理

如东中学物理精选题



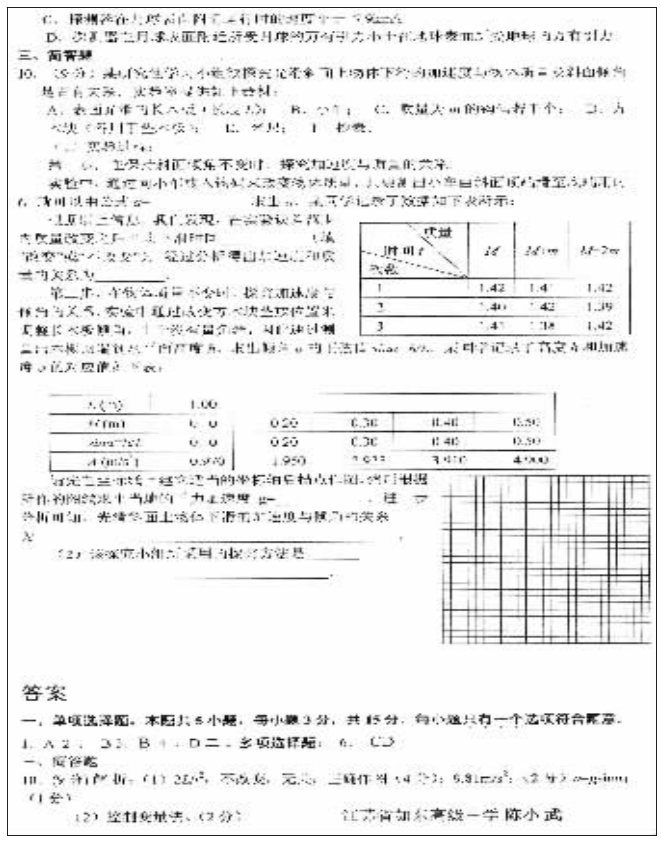

如皋中学物理精选题

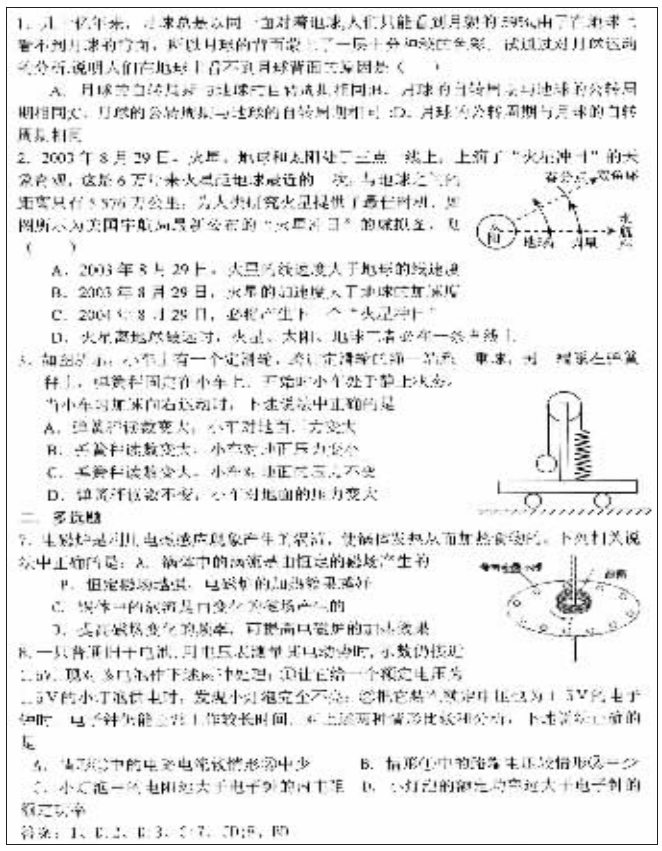

历史

如东中学历史精选题

1.长江流域的文明向有"楚文化"之称,楚国的受封、出现可追溯至
A. 夏朝 B. 商朝
C. 西周 D. 春秋时期

2. 秦始皇统一全国后,为了让他的旨意能畅通无阻地贯彻下去,首先采取的措施应该是
A.统一货币 B.设丞相辅佐皇帝
C.统一度量衡 D.统一文字

4. 希腊神话故事里,有一个著名的斯芬克斯之谜,谜面是:"早晨用四只脚走路,中午用两只脚走路,傍晚用三只脚走路。"许多人因回答不出来被怪兽斯芬克斯吃掉。最终少年英雄俄狄浦斯给出了正确的谜底——"人"。这一故事体现出古希腊哲学思想中
A 重视对人自身的探讨
B 尊重自然规律
C 强调人是世界的主宰
D 渴望征服自然

5.学者认为,公元1500年前后是人类历史的一个重要分水岭,从那个时候开始,人类的历史才称得上是真正意义上的世界史。这里"分水岭"的含义是
A.从封闭走向开放
B.国际贸易中心转移到大西洋沿岸
C.从分散走向整体
D.人的注意力转移到现实生活中来

23.实现近代化(现代化)是近代以来世界各国发展的必由之路,在向近代化迈进的过程中,中国和西方各走了一条不同的道路。有学者认为,西方近代的变革首先是精神层面的变革,然后是制度方面的变革,最后才是器物方面的变革,而中国近代的变革顺序却是正好相反的。依据材料结合所学知识回答:

(1) 联系15–19世纪上半期西方世界及19世纪下半期到20世纪初中国所发生的重大历史事件,说明上述观点。(6分)

(2) 扼要归纳导致中西方变革顺序相反的原因。(4分)

(3) 你认为在我们国家的现代化进程中应如何正确对待外来的优秀文明成果?(2分)

答案:1. C 2. D 4. A 5. C

23.(1)西方:文艺复兴、启蒙运动首先从精神层面上开始变革,接着资产阶级革命确立资产阶级代议制,最后工业革命迅速扩展,欧美国家相继实现工业化(3分)。中国:洋务运动创立近代工业,维新变法和辛亥革命主张兴民权,新文化运动形成思想解放潮流。(3分)

(2) 列强对中国的入侵,打断了中国社会正常的发展进程;中国人在学习西方的过程中,对西方文化的认识有一个渐进的过程。(4分)

(3) 要善于学习借鉴人类优秀文明成果;要立足于中国国情,反对全盘西化和盲目排外,批判地吸收外来文化(2分)。

命题:如东高级中学 周锦华

如皋中学历史精选题

一、选择题

1. "别子为祖,继别为宗,继称者为小宗。有百世不迁之宗,有五世则迁之宗。百世不迁者,别子之后也。"(《礼记·大传》)材料反映的政治制度是
A. 禅让制 B. 宗法制 C. 分封制 D. 郡县制

2. 北宋时期的下列名窑中属于白瓷的是
A. 汝窑 B. 哥窑 C. 钧窑 D. 定窑

3. 韩非子主张实行君主专制,黄宗羲抨击君主专制,依据他们所处的时代背景正确的评价是
A.都是进步思想 B.前者反动后者进步
C.都具有民主色彩 D.都有利于专制主义统治

4. 对"Man is the measure of all things"理解正确的是
A. 它强调人的价值至高无上 B. 它否定神或命运等超自然的力量对社会、人生的作用
C. 它过分强调人的主观感受 D. 它给极端个人主义打开了方便之门

5. 下列19世纪六七十年代兴办的民族资本主义工业客观上反映出其产生的背景

名称	企业家	地点
发昌机器厂	方举赞	上海
继昌隆缫丝厂	陈启沅	广东
贻来牟机器磨坊	朱其昂	天津

A. 沿海地区人们的思想比较开放
B. 沿海地区交通发达,运费便宜
C. 清政府扶持沿海企业
D. 外资企业、洋务派创办的企业的刺激作用

6. 在2008年春节戏曲晚会上,如果你想听谭派唱腔,最有可能是
A.《渔光曲》 B.《天仙配》 C.《红楼梦》 D.《定军山》

8. 1948年12月,中共中央批转陈云同志关于接管沈阳的经验,陈云还向中央建议各战略区都组织接管大城市的班子,以便依次执行接管任务。下列判断最恰当的是
A. 这是按中共七大精神办事 B. 这是按中共七届二中全会精神办事
C. 接管沈阳的经验为七届二中全会提供了借鉴 D. 这是三大战役胜利的结果

12. 资本主义世界市场形成的过程是
①新航路开辟,世界市场雏形出现 ②殖民扩张和殖民掠夺使世界市场进一步扩大 ③工业革命使世界市场形成 ④第二次工业革命,世界市场得到进一步发展
A. ①②③ B. ②③④
C. ①③④ D. ①②③④

13. 17~18世纪欧洲发生了许多重大的变化。主要表现在
①英国确立了君主立宪制度,国王的权力开始受到限制 ②自然科学领域取得许多成就,牛顿力学体系形成,达尔文进化论诞生 ③启蒙运动兴起 ④工业革命开始
A. ①②③④ B. ②③④ C. ①③④ D. ①②③

非选择题

23. 在近代中国,维新派和革命派都为国家的政治民主化进程作出了重要贡献。以下关于两个派别关系的表述,只有一组是准确的,请加以判断,并结合两派的思想主张和实践活动来论证你的判断。
第一组 针锋相对、势不两立
第二组 齐心协力、相得益彰
第三组 异曲同工、殊途同归

24. 阅读下列材料:
材料一
联邦的主席职位属于普鲁士国王,普鲁士国王享有德意志皇帝的尊称。皇帝在国际关系上为帝国的代表,以帝国的名义宣战与媾和。
材料二
第四条 天皇为国家元首,总揽统治权,依本宪法规定实行之。
第七条 天皇召集帝国议会,其开会、闭会、停会及众议院之解散,皆以天皇之命行之。
第十三条 天皇宣战媾和及缔结各项条约。
①材料一和材料二分别出自哪部文献(2分)?结合所学知识,两国元首的权力有哪些相同点?(2分)
材料三
万国报馆,议论沸腾,咸以瓜分中国为言,若箭在弦,省括即法。海内惊惶,乱民蠢动……瓜分剖析,渐露几芽……恐自尔后,皇上与诸臣虽欲苟安旦夕,歌舞湖山而不可得矣!
且恐皇上与诸臣为求长安布衣而不可得矣。
材料四
康有为在《上清帝第五书》中围绕召开国会、定宪法的主张,进一步提出变法的上、中、下三策。皇帝仿效彼得大帝和明治天皇,亲自主持大计,宣布变法,是上策;召集有才能的人,共商变法的具体方案和步骤,依次推行,是中策;责成督抚在各省实施新政,是下策。
——《中国近现代史》教材(上册)
②从材料三、材料四可以看出康有为主张变法的意图是什么?(2分)应如何评价其主张?(4分)
③明治政府是如何发展资本主义的?(4分)

答案 1~5 BDAAD 6.D 8.C 12.D 13.C

23. 第三组:异曲同工、殊途同归。
"异曲":维新派主张改良,实行君主立宪;而革命派主张革命,实行民主共和制。(2分)
"同工":都主张学西方;反对君主专制,实行资产阶级民主政治。(2分)
"殊途":维新派开展了自上而下的维新变法运动;革命派发动辛亥革命;推翻清朝统治,建立中华民国。(4分)
"同归":都推动了中国民主化进程;但最终都没有改变中国半殖民地半封建的社会性质。(4分)

24. ①《德意志帝国宪法》、《日本帝国宪法》(2分);相同点:任免官吏、宣战、媾和、召集和解散议会、统帅军队等。(2分)
②意图:以挽救民族危亡(1分),以抵制人民革命,维护清朝统治(1分)。评价:其"救亡图存"的变法主张在当时是进步的爱国思想(2分);但抵制人民革命,维护腐朽的清政府又反映民族资产阶级的软弱性(2分)。
③改革币制,以金本位的纸币日元作为全国惟一的货币;废除封建领主土地所有制,确认土地私有,允许土地买卖实行地税改革;推行"殖产兴业"政策,发展资本主义新经济(答具体内容也可);明治政府大力扶植和保护私人资本主义的发展。(4分)